15	基本	たし算とひき算の筆算	ひき算の筆算-1	学習日	／

1 786－352と，693－467の計算のしかたをおぼえましょう。 （14点）

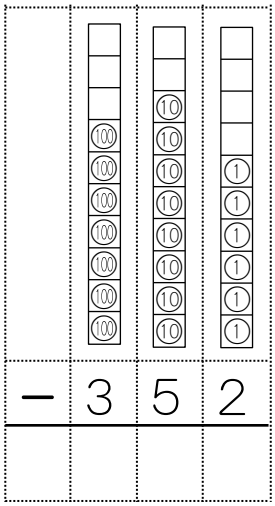

	7	8	6
－	3	5	2

計算のしかた
一の位…6－2＝4
十の位…8－5＝3
百の位…7－3＝4

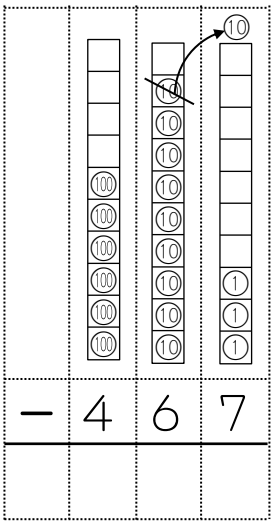

	6	9	3
－	4	6	7

計算のしかた
一の位…3から7はひけない
十の位からくり下げ
13－7＝6
十の位…8になっている
8－6＝2
百の位…6－4＝2

2 次の計算をしましょう。 （3点×8）

① 564 － 231 ＝

② 893 － 523 ＝

③ 758 － 704 ＝

④ 937 － 27 ＝

⑤ 752 － 328 ＝

⑥ 691 － 165 ＝

⑦ 846 － 437 ＝

⑧ 490 － 382 ＝

3 はるかさんは，おこづかいを522円もっています。108円のチョコレートを買うと，何円のこりますか。 （12点）

（式）

答え〔　　〕

4 725－382と，605－592の計算のしかたをおぼえましょう。 （14点）

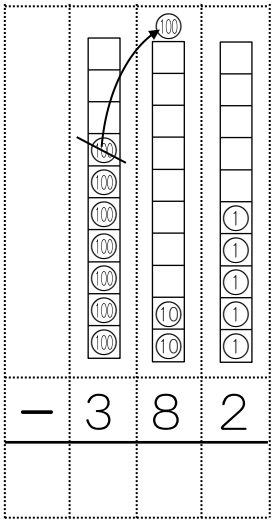

	7	2	5
－	3	8	2

計算のしかた
一の位…5－2＝3
十の位…2から8はひけない
百の位からくり下げ
12－8＝4
百の位…6になっている
6－3＝3

左の計算と同じように
考えてやってね。

	6	0	5
－	5	9	2

5 次の計算をしましょう。 （3点×8）

① 548 － 261

② 729 － 156

③ 614 － 334

④ 902 － 741

⑤ 467 － 392

⑥ 806 － 753

⑦ 745 － 665

⑧ 320 － 270

6 こうき君は238ページの本を読んでいます。いままでに155ページ読みました。
あと何ページのこっていますか。 （12点）

（式）

答え〔　　〕

16	基本	たし算とひき算の筆算	ひき算の筆算-2	学習日	／

1 834－568と，490－394の計算のしかたをおぼえましょう。 （14点）

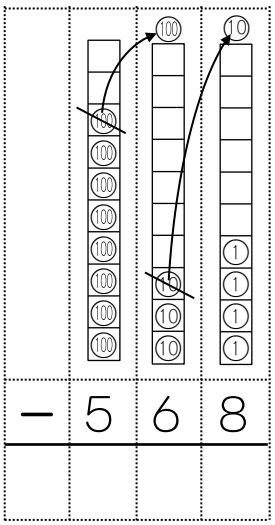

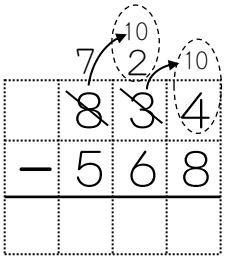

計算のしかた
一の位…4から8はひけない
　　十の位からくり下げ
　　14－8＝6
十の位…2になっている
　　2から6はひけない
　　百の位からくり下げ
　　12－6＝6
百の位…7になっている
　　7－5＝2

左の計算と同じように
考えてやってね。

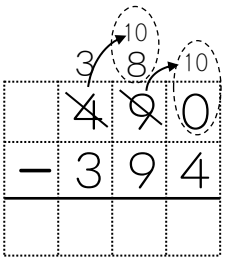

2 次の計算をしましょう。 （3点×8）

① 623 － 159

② 546 － 278

③ 820 － 462

④ 735 － 47

⑤ 590 － 191

⑥ 782 － 385

⑦ 650 － 554

⑧ 931 － 36

3 そうこに，にもつが432こあります。254こはこびだすと，のこりは何こになりますか。 （12点）

（式）

答え〔　　〕

4 502－245と，800－397の計算のしかたをおぼえましょう。 （14点）

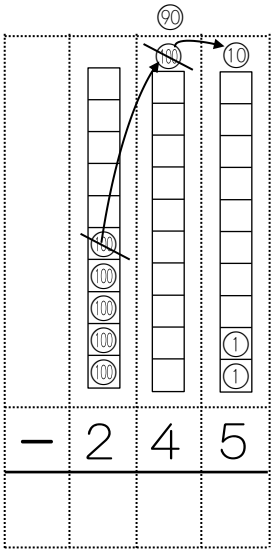

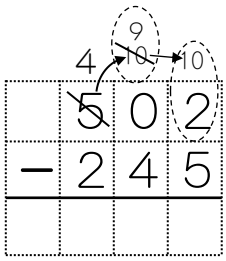

計算のしかた

一の位…2から5はひけない
　　十の位は0だから
　　百のくらいからくり下げ
　　12－5＝7
十の位…9になっている
　　9－4＝5
百の位…4になっている
　　4－2＝2

左の計算と同じように
考えてやってね。



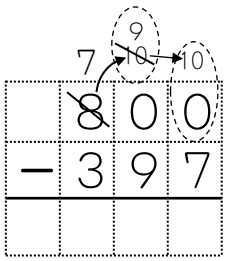

5 次の計算をしましょう。 （3点×8）

① 803 － 156

② 701 － 477

③ 502 － 468

④ 604 － 95

⑤ 300 － 134

⑥ 900 － 363

⑦ 700 － 59

⑧ 400 － 7

6 375円のコンパスを買います。500円出すと，おつりは何円になりますか。

（12点）

（式）

答え〔　　〕

17	基本	たし算とひき算の筆算	まとめ問題	学習日	／

1 次の計算をしましょう。 (3点×12)

① 768 − 346

② 492 − 257

③ 635 − 281

④ 527 − 464

⑤ 351 − 173

⑥ 910 − 425

⑦ 742 − 64

⑧ 863 − 767

⑨ 506 − 228

⑩ 704 − 649

⑪ 900 − 293

⑫ 400 − 94

2 次の計算を，筆算でしましょう。 (5点×6)

① 677 − 74

② 742 − 8

③ 403 − 39

④ 645 − 397

⑤ 724 − 428

⑥ 807 − 638

3 みちかさんは，700－347の計算のまちがいを下のようにせつ明しています。500－286の計算のまちがいを，せつ明してみましょう。（10点）

$$\begin{array}{r} 700 \\ -\ 347 \\ \hline 453 \end{array}$$

百の位から1くりさがったのをわすれています。百の位は6－3＝3になります。

$$\begin{array}{r} 500 \\ -\ 286 \\ \hline 314 \end{array}$$

4 しんご君とあき子さんがゲームをしました。しんご君は413点で，あき子さんは354点でした。しんご君はあき子さんより何点多かったですか。

（12点）

（式）

答え〔　　〕

5 国語じてんは907ページあります。漢和（かんわ）じてんは869ページあります。国語じてんは漢和じてんより何ページ多くありますか。（12点）

（式）

答え〔　　〕

18	基本	たし算とひき算の筆算	4けたの数の筆算	学習日	／

1 4768＋2157と，9425－6279を筆算でしてみましょう。 （12点）

		1	1	
	4	7	6	8
＋	2	1	5	7

		3	1	10
	9	~~4~~	~~2~~	5
－	6	2	7	9

このような4けたの数の計算も，3けたのときと同じように筆算で計算できます。

2 次の計算をしましょう。 （4点×6）

①

	1	4	7	3
＋	4	3	5	6

②

	2	8	6	4
＋	3	2	0	9

③

	5	3	8	6
＋	1	8	4	7

④

	4	7	0	5
＋	2	2	9	8

⑤

	3	5	3	7
＋		7	5	6

⑥

	8	9	2	8
＋			7	4

3 次の計算をしましょう。 （4点×6）

①

	8	6	7	4
－	3	5	9	6

②

	7	5	0	3
－	4	4	7	5

③

	6	3	9	2
－	5	7	7	8

④

	1	4	3	0
－		7	3	1

⑤

	4	0	0	5
－	1	6	5	9

⑥

	8	0	0	0
－			8	4

★	基本	学びをいかそう	かくれている　数	学習日	／

1　次の筆算で，□にあてはまる数を書きましょう。　（10点×2）

(1)

```
    1
  3 2 7
+ 1 □ 5
-------
  4 7 2
```

一のくらいの答えは，　7＋5＝12　だから　2
　　十のくらいに　1　くり上って，
十のくらいは，2＋□＋1＝7　となるので，
　□は　7－（2＋1）＝□と　なります。
また，百のくらいは　3＋1＝4で　あっています。

(2)

```
    10
  8 □ 3
- 1 4 6
-------
  7 2 7
```

一のくらいは，　3－6は　ひけないので，
　前のくらいから　10かりて，13－6＝7です。
十のくらいは，□－1－4＝2　となるので，
　□は　2＋4＋1＝□と　なります。
また，百のくらいは　8－1＝7で　あっています。

2　次の筆算で，□にあてはまる数を書きましょう。　（5点×4）

(1)

```
  4 1 □
+ 2 5 7
-------
  6 7 5
```

(2)

```
  3 5 8
+ 4 □ 6
-------
  8 5 4
```

(3)

```
  9 2 □
- 3 1 7
-------
  6 0 8
```

(4)

```
  5 3 6
- 2 □ 9
-------
  2 4 7
```

19	基本	時こくと時間	時こくと時間−1	学習日	／

1 次の時こくをかきましょう。 （6点×3）

(1)



(2)



(3)

2 次の時間はどれだけですか。 （6点×2）

(1) 午前10時　午後5時

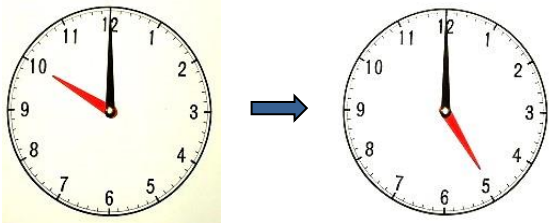

(2) 午前6時　午後2時

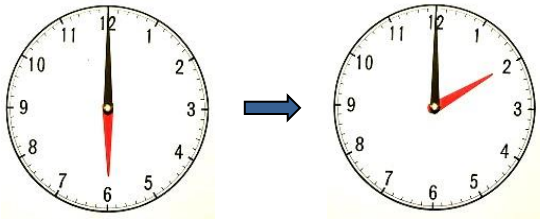

3 あきら君は、2時50分に学校を出て、3時25分に家に着きました。かかった時間はどれだけですか。 （10点）

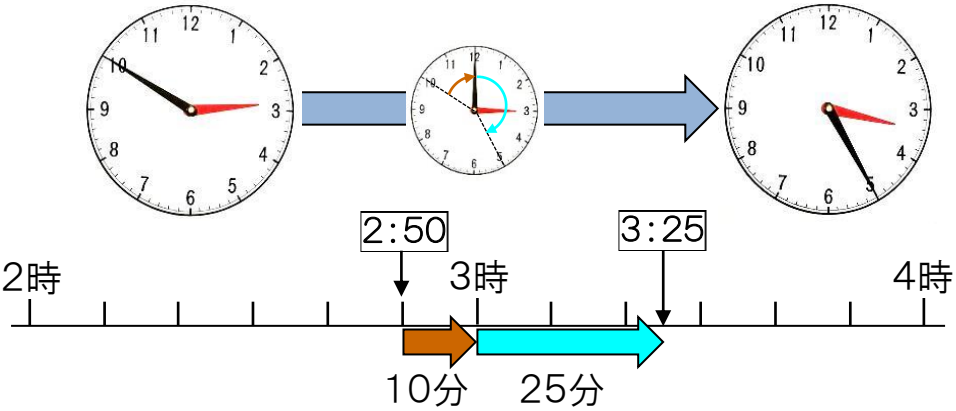

分

4 さちこさんたちは、9時45分に学校を出て、10時35分に神社に着きました。かかった時間はどれだけですか。 （10点）

分

5 水族館（すいぞくかん）の入場（にゅうじょう）時間は、午前10時から午後4時30分までです。入場時間はどれだけですか。 （10点）

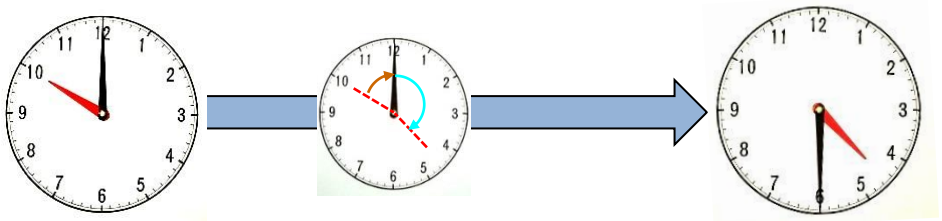

時間　　分

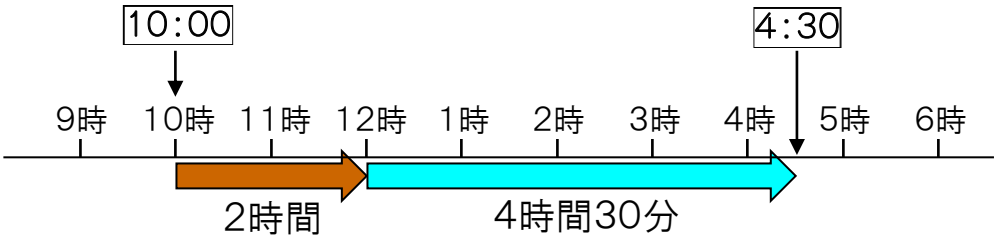

6 あきら君は、午前8時から午後3時45分まで学校にいました。学校にいた時間はどれだけですか。 （10点）

時間　　分

7 次（つぎ）の時間を答えましょう。 （10点×3）

(1) 午前7時25分から午前8時20分まで

答え〔　　分〕

(2) 午前8時30分から午後2時まで

答え〔　　時間　　分〕

(3) 午後5時30分から午前1時まで

答え〔　　時間　　分〕

20	基本	時こくと時間	時こくと時間−2	学習日	／

1 さちこさんたちは、10時45分に神社(じんじゃ)を出て、25分歩いて植物園(しょくぶつえん)に着きました。植物園に着いた時こくは 何時何分ですか。（15点）

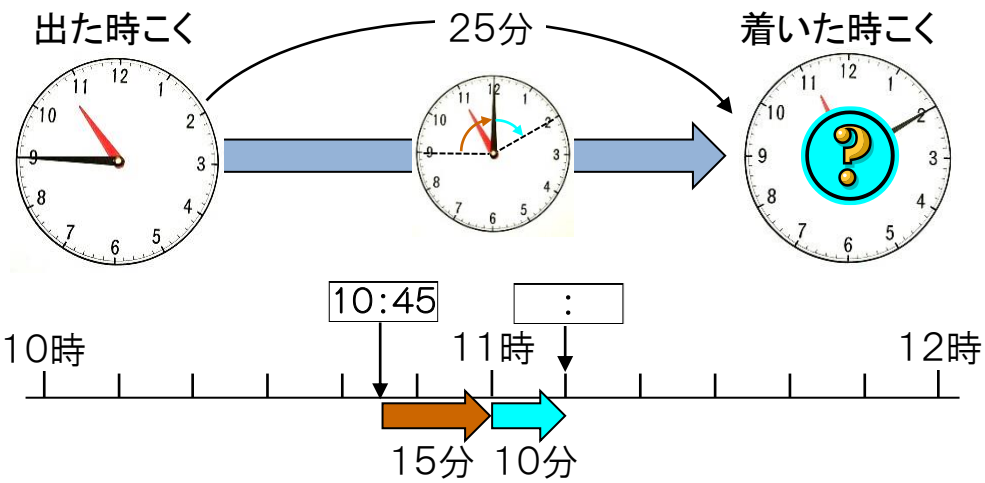

時　　分

2 植物園を出て45分歩き、2時15分に学校に着きました。植物園を出た時こくは何時何分ですか。（15点）

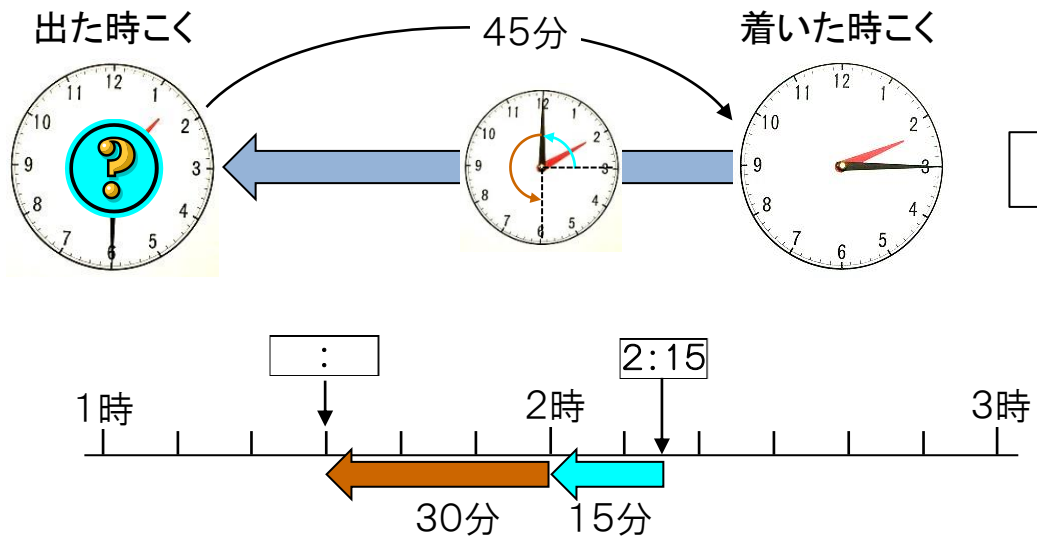

時　　分

3 あきら君は、家から駅に行くのに20分かかります。5時10分に駅に着くには、家を何時何分に出るとよいですか。（10点）

時　　分

4 さくやさんたちは、登山口（とざんぐち）を8時50分に出て、55分歩いて山ちょうに着きました。山ちょうについた時こくは 何時何分ですか。 （15点）

時　　分

5 しんじ君は、家を出て40分歩き、9時10分に嵐山（あらしやま）に着きました。家を出た時こくは 何時何分ですか。 （15点）

時　　分

6 次（つぎ）の時こくを答えましょう。 （10点×3）

(1) 5時35分の35分あとの時こくは何時何分ですか。

答え〔　　時　　分〕

(2) 11時20分の50分前の時こくは何時何分ですか。

答え〔　　時　　分〕

(3) 3時15分の40分前の時こくは何時何分ですか。

答え〔　　時　　分〕

21	基本	時こくと時間	短い時間・まとめ	学習日	／

1分より短(みじか)い時間のたんいに **秒**(びょう) があります。

1分＝60秒です。

いちばん速く動くはりがひとまわりすると、長いはりは1目もり動きます。

1 □にあてはまる数をかきましょう。 （5点×6）

① 1分＝□秒　　② 2分＝□秒

③ 1分20秒＝□秒　　④ 1分40秒＝□秒

⑤ 70秒＝□分□秒　　⑥ 95秒＝□分□秒

2 教室からしょくいん室まで歩いて75秒かかりました。これは何分何秒ですか。 （10点）

分　　秒

3 牛にゅうを電子(でんし)レンジで1分30秒あたためました。何秒間あたためましたか。 （10点）

秒間

4 次(つぎ)の時間を答えましょう。 （10点×2）

(1) 午後6時35分から午後7時15分まで

答え〔　　分〕

(2) 午前7時30分から午後4時まで

答え〔　　時間　　分〕

5 次の時こくを答えましょう。 （10点×2）

(1) 9時40分の45分あとの時こくは何時何分ですか。

答え〔　　時　　分〕

(2) 10時15分の40分前の時こくは何時何分ですか。

答え〔　　時　　分〕

6 だいき君は、かいだんを1階(かい)から6階までのぼるのに83秒かかりました。
これは何分何秒ですか。 （10点）

分　　秒

22	基本	一万をこえる数	万の位	学習日	／

1 貯金(ちょきん)が二万三千六百二十四円たまりました。 （5点×2）

一万の位	千の位	百の位	十の位	一の位
□	□	□	□	□

(1) 上の□に数をかきましょう。

(2) 二万三千六百二十四を数字でかきましょう。 〔　　〕

2 つぎの 数(かず)を よみましょう。 （4点×4）

(1) 17395　(2) 57000　(3) 60189　(4) 80000

3 つぎの 数を 数字で かきましょう。 （4点×6）

(1) 三万二千四百七十八

(2) 九万九百四十七

(3) 六万五十

(4) 四万百二

(5) 八万三

(6) 七万

4 54930について，あとの問題に答えましょう。 （5点×4）

(1) 十の位の数字は何ですか。 〔　　〕

(2) 一万の位の数字は何ですか。 〔　　〕

(3) 4は何の位の数字ですか。 〔　　の位〕

(4) 0は何の位の数字ですか。 〔　　の位〕

5 □に あてはまる 数を かきましょう。 （5点×6）

(1) 一万を 4こ，千を9こ あわせた 数は，□です。

(2) 一万を 8こ，百を2こ ，十を3こ あわせた 数は，□

です。

(3) 一万を 7こ，千を7こ ，一を7こ あわせた 数は，□

です。

(4) 57324は，一万を □こと，千を □こと，百を □こと，十を □こと，

一を □こ あわせた 数です。

(5) 36000は，一万を □こと，千を □こ あわせた 数です。

(6) 70902は，一万を □こと，百を □こと，一を □こ あわせた 数です。